橘子汁课堂
中小学专项题库

专注中小学专项题库在线练习
让课堂学习更轻松！

识别小程序码进入
在线练习本单元试题

官方网址：www.juzizhi.cn

数一数与乘法专项题库练习

一、填空题。

1、6＋6＋6＋6 表示（　　）个（　　）相加，列乘法算式是（　　）×（　　）或（　　）×（　　）。

2、3×4＝12，读作（　　）乘（　　）等于（　　），表示（　　）个（　　）相加得（　　）；还可以表示（　　）个（　　）相加得（　　）。

3、在乘法算式 2×7＝14，（　　）和（　　）是乘数，14 是（　　）。

4、



横着看，有（　　）个（　　），加法算式是（　　），乘法算式是（　　）。

竖着看，有（　　）个（　　），加法算式是（　　），乘法算式是（　　）。

二、选择题。

1、下面（　　）表示 4＋4＋4＝12。

A. □□□□　　B. □□□□ □□□□　　C. □□□□ □□□□ □□□□

2、与 2×5 结果不相同的算式是（　　）。

A．2＋5　　B．5＋5　　C．5×2

3、一千克苹果 3 元，妈妈要买 6 千克苹果，求所花的钱数用（　　）法计

算比较简便。

A．加　　B．减　　C．乘

4、小军要买书，一本书 4 元，他要买 4 本，求所花的钱数？不正确的列式（　　）。

A．4＋4　　B．4×4　　C．4＋4＋4＋4

5、有 6 个同学看卡通漫画,每个同学看了 2 本,一共看了（　　）本。

A.6×6　　B.6＋2　　C.6×2

三、在（　　）填上正确的数。

2＋2＝（　　）×（　　）

3＋3＝（　　）×（　　）

5＋5＋5＋5＋5＝（　　）×（　　）

7＋7＋7＋7＋7＝（　　）×（　　）

3×9＝（　　）＋（　　）＋（　　）

3×4＝（　　）＋（　　）＋（　　）

6×5＝（　　）＋（　　）＋（　　）＋（　　）＋（　　）

四、判断题。

1、加法算式都可以改写成乘法算式。（　　）

2、求几个相同加数的和，用乘法计算比较简便。（　　）

3、“6 个 3”和“3 个 6”的意思相同。（　　）

4、3＋3＋3＋3＝3×4＝4×3。（　　）

五、计算题。

41＋14＝　　20＋30＝　　13＋66＝　　15＋15＝

9－4＋15＝	36－12＋44＝	76＋16－27＝
6＋6－7＝	9＋6－7＝	6＋64－8＝
3×5＝	2×3＝	7×3＝
5×5＝	9×3＝	4×3＝

六、看图列式计算。

1、

（　　）×（　　）＝（　　）

2、 

（　　）×（　　）＝（　　）

3、 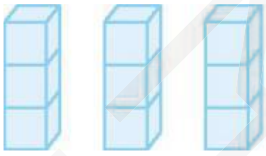

（　　）×（　　）＝（　　）

七、应用题。

1、

问：一共有多少条鱼？

2、

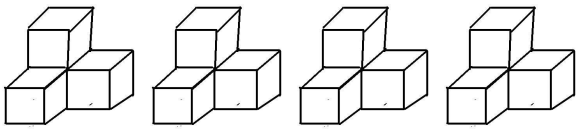

问：图中共有多少个小正方体？

3、苹果一个 3 元，小明要买 6 个，他需要付多少元钱？

4、在学校的四周，每边各插 4 面旗子，一共需要多少面旗子？



数一数与乘法专项题库练习答案

一、填空题。

1、4　6　4　6　6　4

2、3　4　12　3　4　12　4　3　12

3、2　7　积

4、3　6　6＋6＋6　6×3

　6　3　3＋3＋3＋3＋3＋3　3×6

二、选择题。

C　A　C　A　C

三、在（　　）填上正确的数。

2　2　　3　2　　5　5　　7　5

9　9　9　　4　4　4　　6　6　6　6　6

四、判断题。

×　√　×　√

五、计算题。

55　50　79　30　　20　68　65　　5　8　62

15　6　21　　25　27　12

六、看图列算式计算。

1、4　5　20　　2、4　3　12　　3、3　3　9

七、应用题。

1、4×3＝12（条）　　2、4×4＝16（个）

3、3×6＝18（元）　　4、4×4＝16（面）

橘子汁课堂
www.juzizhi.cn

橘子汁课堂公众号

橘子汁课堂商城

中小学专项题库